VESTIBULAR
MEDICINA

2024/02

PROCESSO SELETIVO 2º SEMESTRE DE 2024
CAMPUS APARECIDA
04 DE JUNHO DE 2024

DISCIPLINAS - BIOLOGIA, FÍSICA, GEOGRAFIA, HISTÓRIA, LÍNGUA ESTRANGEIRA (INGLÊS), LÍNGUA PORTUGUESA, LITERATURA BRASILEIRA, MATEMÁTICA, QUÍMICA.

INSTRUÇÕES

- Não se comunique, em hipótese alguma, com outros candidatos.
- Não é permitida a consulta a apontamentos, livros ou dicionários.
- Solicite a presença do fiscal em caso de necessidade.
- Para marcar no Cartão-Resposta, utilize caneta esferográfica de tinta azul ou preta.
- Confira, no Cartão-Resposta, o número de sua inscrição, seu nome e assine no espaço adequado.
- Em nenhuma hipótese será distribuída uma cópia do Cartão-Resposta e da Folha de Redação, que são identificados eletronicamente.
- Não serão consideradas as respostas que não forem transportadas para o Cartão-Resposta.
- As questões deverão ser respondidas no Cartão-Resposta, assinalando-se as proposições correspondentes de cada questão, sendo: Verdadeiras (1ª coluna) e Falsas (2ª coluna).
- Confira, na Folha de Redação, o número de sua inscrição e entregue-a juntamente com o Cartão-Resposta.
- O candidato, em nenhuma hipótese, poderá identificar-se na prova de redação.
- Verifique se o seu Caderno de Questões apresenta todas as folhas numeradas corretamente. Caso haja algum problema, comunique ao fiscal de sala.

unirv.edu.br | @unirvoficial | /unirv

EQUIPE DE VESTIBULAR
vestibular@unirv.edu.br
Fone/WhatsApp 64 3620-3030

LÍNGUA PORTUGUESA

QUESTÃO 1

É impossível ao homem preservar-se suficientemente contra todos os caprichos e todas as injustiças do destino, para não sofrer frequentes tormentas, quando se está com as armadas no mar. Deve-se reduzir o espaço que se ocupa, se se quer que as setas da fortuna caiam no vácuo: daí resulta que o exílio e a desgraça são por vezes de um efeito salutar e que as desgraças medíocres curam por vezes outras mais graves. Quando uma alma, surda aos bons conselhos, se esquiva dos tratamentos mais suaves, não é querer seu bem submetê-la à pobreza, ao descrédito público e à proscrição? Um mal combate o outro. Tomemos, pois, o hábito de nos abstermos de espectadores quando ceamos, de não nos sujeitarmos a não ser a um pequeno número de escravos, de não termos roupas a não ser para o uso que as criou e de nos alojarmos modestamente. Não é só nas corridas e nos torneios do circo, é também na arena da vida que é preciso saber curvar-se.

As despesas de ordem literária, as mais justas de todas, não são estas mesmas razoáveis, a não ser que sejam moderadas. Para que servem inúmeros livros e bibliotecas, se o proprietário encontra apenas o tempo em sua vida para ler as etiquetas? Uma profusão de leituras sobrecarrega o espírito, mas não o ilustra; e melhor seria aplicar-se muito a um pequeno número de autores do que vagar no meio de muitos. (**Da tranquilidade da alma** – Sêneca – p. 26, da Antologia de textos – Coleção Os pensadores. São Paulo: Abril Cultural, p.85).

Assinale V (verdadeiro) ou F (falso) para as afirmativas abaixo de acordo com o texto:

A ( ) O texto tem caráter meramente informativo, ao dar orientações sobre como se deve viver uma vida em tranquilidade.

B ( ) Sêneca defende que se leve a vida com moderação, sem excessos materiais nem excessos nas coisas relativas ao espírito, como a leitura.

C ( ) O autor defende que o homem deve procurar proteger-se de todas as dificuldades que o destino possa lhe impor, assim escapando de desgraças.

D ( ) Sêneca acredita que algumas dificuldades e dissabores na vida podem prevenir problemas maiores e mais graves.

QUESTÃO 2

Apesar de ter examinado os mapas da cidade com grande cuidado, nunca mais encontrei a Rue d'Asueil. E não examinei apenas mapas modernos, pois sei que os nomes dos lugares mudam. Pelo contrário, mergulhei profundamente em todas as antiguidades do lugar; e explorei pessoalmente todas as regiões, de qualquer nome, que pudessem corresponder à rua que eu conhecia como Rue d'Asueil. Mas, apesar de tudo o que fiz, continua sendo um fato humilhante não conseguir encontrar a casa, a rua ou mesmo a localidade onde, durante os últimos meses de minha pobre vida como estudante de metafísica na universidade, ouvi a música de Erich Zann.

Minha memória está cada vez pior, mas isso não me admira, pois minha saúde, física e mental, esteve gravemente perturbada durante todo o tempo em que residi na Rue d'Asueil, e lembro-me de que não levei nenhum de meus poucos conhecidos até lá. Mas o fato de eu não conseguir encontrar o lugar novamente é algo singular e perplexo, pois ficava a meia hora de caminhada da universidade e se distinguia por peculiaridades que dificilmente poderiam ser esquecidas por qualquer um que estivesse lá. Eu jamais conheci uma pessoa que tenha visto a Rue d'Asueil. (A música de Erich Zann. In: LOVECRAFT, H.P. **O chamado de Cthulhu e outros contos**. Jandira, SP: Principis, 2019).

Assinale V (verdadeiro) ou F (falso) para as alternativas de acordo com o texto:

A ( ) Pelo relato do narrador, percebe-se sua perplexidade por não conseguir reencontrar o lugar onde teve alguma experiência relevante durante sua vida universitária.

B ( ) O narrador afirma que sua precária condição física e mental na época da universidade se devia ao fato de ter poucos amigos e padecia de solidão intensa.

C ( ) É possível assegurar que o fato de que nenhuma pessoa jamais tenha visto a Rue d'Asueil prova que esse lugar existia apenas na imaginação do narrador.

D ( ) No trecho “Minha memória está cada vez pior, mas isso não me admira, pois minha saúde, física e mental, esteve gravemente perturbada durante todo o tempo em que residi na Rue d’Asueil”, há uma oração principal e três orações subordinadas.

LITERATURA BRASILEIRA

QUESTÃO 3

Sobre os poemas que integram o livro *Sentimento do Mundo*, de Carlos Drummond de Andrade, assinale verdadeiro (V) ou falso (F):

A ( ) No trecho *“Tenho apenas duas mãos e o sentimento do mundo”*, do poema que abre o livro *Sentimento do Mundo*, Drummond revela sua força ilimitada para resolver um problema vigente não apenas no Rio de Janeiro, mas que afeta universalmente o ser humano.

B ( ) Considere o trecho de “Confidência de um itabirano": *“Alguns anos vivi em Itabira. Principalmente nasci em Itabira. Por isso sou triste, orgulhoso: de ferro. Noventa por cento de ferro nas calçadas. Oitenta por cento de ferro nas almas. E esse alheamento do que na vida é porosidade e comunicação”*. No texto é possível observar a tensão e a interdependência entre o sujeito do passado e o sujeito que agora escreve.

C ( ) No livro *Sentimento do Mundo* há apenas um poema que trata do fazer poético: “Mãos dadas”.

D ( ) Observa-se nos poemas uma dicotomia entre luz e trevas, por meio da qual se apresenta o pessimismo do autor acerca da condição humana.

QUESTÃO 4

Sobre o livro *Laços de Família*, de Clarice Lispector, assinale V (verdadeiro) ou F (falso):

A ( ) Trata-se de uma obra de caráter intimista, que se aprofunda nos sentimentos das personagens.

B ( ) Por ser uma obra regionalista, trata de questões que se passam basicamente no Rio de Janeiro, cujas problemáticas são muito particulares desse local.

C ( ) Os contos do livro não tocam em temas sociais, como pode ser visto em outras obras literárias, mas apenas questões relacionadas ao amor feminino.

D ( ) Uma das principais características da obra de Clarice Lispector é a utilização de um vocabulário marcado por neologismos, a exemplo de outro autor da 3ª geração modernista, João Guimarães Rosa.

HISTÓRIA

QUESTÃO 5

A respeito da expansão marítima europeia da Idade Moderna, e da conquista e colonização do Novo Mundo, considere se as afirmações abaixo são verdadeiras (V) ou falsas (F):

A ( ) A escravidão de povos autóctones foi permitida nas áreas da Monarquia Castelhana, quando aplicada contra indígenas rebeldes ou capturados em guerras.

B ( ) Nas Antilhas, onde primeiro se estabeleceram os espanhóis, com o tempo passaram a se assentar, também, holandeses, franceses e ingleses.

C ( ) A *encomienda*, instituição conhecida na Europa Medieval, impunha o trabalho servil aos indígenas, sendo aplicada pelos países colonizares como Espanha, França e Inglaterra.

D ( ) No Brasil, ao contrário do que ocorreu nas áreas castelhanas do Novo Mundo, a conquista dos Estados centralizados ocorreu de forma pacífica.

QUESTÃO 6

Em um sentido amplo, segundo as doutrinas que floresceram na Europa na Idade Moderna, a legitimação do poder político para regrar a vida social surge a partir de um contrato. Isto é, segundo os contratualistas, a origem do Estado se funda em um acordo tácito entre a maioria dos indivíduos, sem qualquer referência a um poder divino ou transcendente, assinalando a transição do estado de natureza para o estado político ou para sociedade civil.

Verifique entre as opções abaixo, quais apresentam corretamente teóricos do contratualismo na Idade Moderna, assinalando verdadeiro (V) ou falso (F), segundo as alternativas apresentadas.

A ( ) Thomas Hobbes, um dos teóricos do contratualismo, defendia a necessidade que os governos fossem fortes de forma a regular as relações sociais; segundo ele, a falta de um poder superior resultava na guerra.

B ( ) Jean Bodin é considerado um dos formuladores da doutrina do Contrato Social; ele preconizava que os governos surgem da livre deliberação dos indivíduos que preservam o direito de destituí-los se não cumprirem sua funça.

C ( ) Voltaire contribuiu decisivamente para definir o contratualismo ao fundamentar defender a indivisibilidade da soberania; segundo ele, a delegação de poderes dilui a soberania necessária a um governo estável.

D ( ) Jean Jaques Rousseau defendeu que o "Contrato social", ou "Pacto civil" , foi um artifício elaborado para resolver os conflitos decorrentes do surgimento da propriedade privada no estado pré-civil.

GEOGRAFIA

QUESTÃO 7

"Fatores climáticos" são as condições que contribuem para as características do clima de um determinado espaço geográfico. Assinale quais alternativas abaixo são verdadeiras (V) e quais são falsas (F) sobre os fatores que incidem sobre o clima:

A ( ) Latitude, altitude e pressão atmosférica

B ( ) Latitude, altitude, correntes marítimas

C ( ) Continentalidade, maritimidade e massas de ar

D ( ) Temperatura, umidade e massas de ar

QUESTÃO 8

A necessidade de conhecer, em detalhes, o espaço onde se habita, contribuiu para tenhamos registros de mapas muito antigos. Destacam-se, neste sentido, os nomes dos gregos Anaximandro de Mileto (611-547 a.C.) e Eratóstenes de Cirene (276-196 a.C.), assim como o de Claudio Ptolomeu (90-186 d.C.), autor da obra *Geografia*, em que encontramos a explanação sobre conceitos empregados ainda atualmente.

Assinale quais alternativas abaixo são verdadeiras (V) e quais são falsas (F) sobre os elementos que todo o mapa deve obrigatoriamente apresentar:

A ( ) Título, Fonte e Legenda

B ( ) Grade de Coordenadas Geográficas e Escala

C ( ) Croqui e Pontos Cardeais

D ( ) Projeção Cartográfica e Planta Topográfica

MATEMÁTICA

QUESTÃO 9

Assinale V (verdadeiro) ou F (falso) para as alternativas.

A ( ) Sabe-se que três números reais formam uma progressão aritmética crescente, cuja soma dos termos é 21 e o produto entre eles é 280. Então, podemos afirmar que o menor desses termos é 9.

B ( ) A soma dos 30 primeiros termos de uma progressão aritmética é igual a 960. Se o primeiro termo dessa progressão é 3, então, o trigésimo termo é igual a 60.

C ( ) Maria sabe que a soma dos termos de uma progressão geométrica é representada pela fórmula $S_n = 3^n - 1$. Utilizando essa relação, ela descobriu que o quinto termo da progressão é 54.

D ( ) O primeiro termo de uma progressão geométrica, cujo quarto termo seja 375 e o sexto termo seja 9375, é $a_1 = \pm 3$.

QUESTÃO 10

Assinale V (verdadeiro) ou F (falso) para as alternativas.

A ( ) Podemos calcular a moda para dados qualitativos e quantitativos.

B ( ) Considere que a média aritmética das notas de 40 alunos de uma sala de aula é 71,3 e que a média aritmética das notas dos meninos é 68, enquanto das meninas é 74. Nesse caso, podemos afirmar que essa sala de aula possui 22 meninos e 18 meninas.

C ( ) Paulo comprou um terreno por R$ 160.000,00 e, após um ano e meio, o vendeu por R$ 220.000,00. Com a venda, o lucro percentual que ele obteve foi de 37,5%.

D ( ) Se a aresta de um cubo for aumentada em 20%, pode-se afirmar que seu volume aumentará em 72,8%.

FÍSICA

QUESTÃO 11

A Norma Brasileira (NBR-10152/8722) registrada no Instituto Nacional de Metrologia, Normalização e Qualidade Industrial (INMETRO), estabelece, para os hospitais, valores de níveis sonoros de 35 dB para conforto, e 45 dB como valor aceitável para apartamentos, enfermarias, berçários e centros cirúrgicos. Já em laboratórios e áreas para uso do público, 40 dB para conforto e 50 dB como nível aceitável para a finalidade. Sabendo que o limiar de audibilidade é de 10^{-12} W/m², julgue as afirmativas em V para verdadeiras ou F para falsas.

A ( ) Um fiscal verificou que a intensidade sonora em uma enfermaria era de 10^{-7} W/m², estando assim, de acordo com a norma.

B ( ) Um fiscal verificou que a intensidade sonora em um laboratório era de 10^{-7} W/m², estando assim, de acordo com a norma.

C ( ) Um fiscal verificou que a intensidade sonora em um berçário era de 10^{-8} W/m², estando assim, de acordo com a norma.

D ( ) Um fiscal verificou que a intensidade sonora em uma área de atendimento ao público era de 10^{-8} W/m², estando assim, de acordo com a norma.

QUESTÃO 12

Em 1787, Jacques Alexandre Cesar Charles, usando experimentos com balões aquecidos, concluiu que todos os gases têm aproximadamente o mesmo coeficiente de dilatação volumétrico $(\beta = {}^{1}/_{273}\ {}^{\circ}C^{-1})$. Dessa forma, podemos entender que o coeficiente de dilatação volumétrica dos gases indica que o volume de um gás, à temperatura inicial 0 ºC, diminui 1/273 quando sua temperatura é reduzida em 1 ºC. Diminuindo-se a temperatura em 10 ºC, o volume diminuiria 10/273 e assim por diante. Baseado nas informações citadas e em seus conhecimentos de física básica, julgue as afirmativas em V para verdadeiras ou F para falsas.

A ( ) Conforme se reduz a temperatura de um gás em direção ao zero absoluto, seu volume final tende a 22,4 L.

B ( ) Conforme se reduz a temperatura de um gás em direção ao zero absoluto, seu volume final tende a zero.

C ( ) Para uma redução de 10 °C, o volume de um gás reduziria cerca de 63,4% de seu volume a 0 °C.

D ( ) Na prática, ao reduzir a temperatura de um gás, haverá mudança de estado físico e o coeficiente de dilatação dos líquidos e sólidos não se comportam de acordo com a teoria descrita.

BIOLOGIA

QUESTÃO 13

As dislipidemias são definidas como alterações na concentração plasmática das lipoproteínas. Sobre lipoproteína de baixa densidade - LDL e lipoproteína de alta densidade - HDL, julgue os itens abaixo em verdadeiras ou falsas.

A ( ) As LDL (Low density lipoprotein) são as principais transportadoras de colesterol e as HDL (High density lipoprotein) são as principais transportadoras de fosfolipídeos.

B ( ) Se o colesterol estiver muito elevado no sangue ele atrapalha a captação do complexo LDL-colesterol pelos tecidos. Desta forma, esse complexo ficará em excesso no sangue.

C ( ) Quando os níveis de HDL encontram-se elevados, ocorre o acúmulo nas paredes dos vasos sanguíneos, podendo atrapalhar a passagem do sangue, e podendo desenvolver a aterosclorose.

D ( ) A lipoproteína LDL captura o colesterol no sangue e leva para o fígado onde será quebrado e excretado. Conhecido como transporte reverso.

QUESTÃO 14

As organelas são estruturas encontradas dentro das células e desempenham papéis específicos na manutenção da vida celular. Cada organela possui uma função única, contribuindo para processos como produção de energia, síntese de proteínas, armazenamento e transporte de substâncias. Considere as seguintes afirmações sobre as organelas e suas funções no contexto da biologia celular e marque (V) para verdadeiro e (F) para falso:

A ( ) O retículo endoplasmático rugoso também desempenha um papel importante na síntese de lipídios e no armazenamento de cálcio, funções compartilhadas com o retículo endoplasmático liso.

B ( ) Os peroxissomos contêm a enzima catalase, que degrada o peróxido de hidrogênio, um subproduto potencialmente prejudicial da oxidação. Os peroxissomos participam da síntese de lipídios, como ácidos biliares, desempenhando um papel importante no metabolismo lipídico.

C ( ) As mitocôndrias estão diretamente envolvidas na síntese de ácidos graxos e produção de colesterol, processos que ocorrem primariamente no citosol e no retículo endoplasmático.

D ( ) O complexo de Golgi é composto por um empilhamento de membranas chamado de cisternas, e as proteínas entram pelo lado trans e saem pelo lado cis.

QUÍMICA

QUESTÃO 15

Os gases nobres, também conhecidos como gases inertes, compõem o Grupo 18 da tabela periódica e são notáveis por sua extrema estabilidade química e baixa reatividade. Eles incluem o hélio (He), neônio (Ne), argônio (Ar), criptônio (Kr), xenônio (Xe) e radônio (Rn). Considerando as características desses gases, avalie as afirmativas, assinalando V (verdadeiro) ou F (falso) para as alternativas.

A ( ) Gases nobres apresentam baixa energia de ionização, esta propriedade decresce de baixo para cima no grupo.

B ( ) Todos os gases nobres são obtidos pela destilação fracionada do ar.

C ( ) Nas mesmas condições, o gás hélio é menos denso do que o hidrogênio. Por apresentar baixa densidade e ser não inflamável, ele é usado para fazer flutuar os dirigíveis.

D ( ) Xenônio, um gás nobre, cede elétrons a elementos altamente eletronegativos devido à sua energia de ionização relativamente baixa.

QUESTÃO 16

Os elementos do grupo "*d*" da tabela periódica são os elementos de transição, estão localizados nos blocos centrais da tabela periódica. Eles são fundamentais para muitos aspectos da tecnologia moderna e são amplamente estudados devido às suas propriedades únicas e sua importância na química e na física. A seguir, avalie as afirmativas, assinalando V (verdadeiro) ou F (falso) para as alternativas.

A ( ) O Molibdênio e o Ródio são metais de transição, com distribuição eletrônica terminadas em $5s^1 4d^8$ e $5s^1 4d^5$, respectivamente.

B ( ) Os pontos de ebulição e fusão dos elementos representativos são maiores do que os dos metais de transição.

C ( ) Os elementos do bloco *d* possuem, como característica, boa condução elétrica.

D ( ) Em se tratando de átomos dos metais *d*, elementos do Período 5 geralmente possuem raios atômicos maiores do que elementos do Período 4.

LÍNGUA ESTRANGEIRA (INGLÊS)

QUESTÃO 17

High school reunion planning in the 21st century has been greatly facilitated thanks to the internet. The World Wide Web has made it much easier to search for classmates, vendors, favors, and do all kinds of research to help plan the event. The Web has also made communicating with classmates and collecting information so much easier than it was prior to the internet age.
The best way to correspond with classmates is through a reunion website that acts as a communications center where you can disseminate important reunion details, collect information, sell tickets, create a buzz, and so much more.

In the past, creating a website required someone with the technical knowledge and skills of an experienced computer programmer. Thanks to do it yourself reunion website builders like the one at MyEvent.com, the task of creating a reunion website has been made extremely easy. One of the chapters in this book will be devoted to getting the most out of your website, and throughout the book we will throw in tips on how your website can help with your reunion planning.

(Disponível em: reunionclass.com).

Assinale V (verdadeiro) ou F (falso) para as alternativas de acordo com o texto:

A ( ) O texto acima é parte de um livro que dá dicas sobre planejamento de reuniões de colegas de escola e, em um dos capítulos, explica como usar um site para esse planejamento.

B ( ) O trecho “High school reunion planning in the 21st century [...]” é uma estrutura nominal, e o núcleo dessa estrutura é “reunion”.

C ( ) Segundo o texto, o advento da internet facilitou muito a organização de reuniões de colegas de escola e o autor ressalta que a melhor maneira de usar esse benefício é criar um *site*.

D ( ) Os termos “internet”, “The World Wide Web”, “The Web” e “website” são usados como sinônimos no texto.

QUESTÃO 18

Glucose is our body’s preferred source of energy. Every cell in our body uses glucose to perform its function: our lung cells to breathe, our brain cells to think, our heart cells to pump blood, our eye cells to see, and so on. Glucose is important. And the main way we provide our bodies with glucose is by eating it. Glucose is found mostly in foods we call “carbohydrates” (or “carbs”): starchy foods (bread, pasta, rice, potatoes) and sugary foods (fruit, sweets, desserts).

You may think that if we need glucose for energy, more glucose will give us more energy, so we should try to eat as many sugary and starchy foods as possible, right? Actually, that’s not the case: a plant needs some water to live, but if you give it too much it dies. In the same way, give a human too much glucose and bad things start happening. When we deliver too much glucose too quickly to our body during a meal, we experience what is called a glucose spike. This is not something that only affects people with diabetes. Most of us experience glucose spikes (about 80% of the population, according to some US estimates), and unfortunately, these spikes carry with them consequences that can harm both our physical and our mental health. (INCHAUSPE, Jessie. **The Glucose Goddess Method**: Your four-week guide to cutting cravings, getting your energy back, and feeling amazing. With 100%2B super easy recipes (p. 19). New River. Edição do Kindle).

Assinale V (verdadeiro) ou F (falso) para as alternativas de acordo com o texto:

A ( ) A autora aponta a importância da glicose para o funcionamento de nossas células, mas no final do trecho acima, ela alerta para os riscos dos picos de glicose no organismo.

B ( ) Mantendo um tom formal e uma linguagem científica, o texto apresenta estimativas estatísticas de organizações norte-americanas.

C ( ) A autora contradiz o raciocínio de que devemos fazer uma maior ingestão de glicose para obtermos níveis mais altos de energia.

D ( ) O sufixo “-y” ajuda na formação de adjetivos, como em “sugary” e “starchy”, mas esse não é o caso em “many”, “actually” e “try”.

REDAÇÃO EM LÍNGUA PORTUGUESA

INSTRUÇÕES

1. O texto deverá ter, no máximo, 25 (vinte e cinco) linhas, e no mínimo, 20 (vinte) linhas. Textos que não atingirem 20 linhas serão eliminados.

2. A proposta de redação apresenta coletâneas que mantêm uma linha temática. Consulte as coletâneas e utilize-as segundo as instruções específicas. Não as copie.

3. Ao elaborar sua redação, você poderá utilizar-se também de outras informações que julgar relevantes para o desenvolvimento da temática escolhida, desde que estejam, essencialmente, relacionadas.

4. Na redação final você deverá ater-se ao seguinte:
a) dê um título à sua redação;
b) use caneta de tinta azul ou preta.

5. Qualquer redação, por mais bem feita que seja, terá nota zero se fugir da temática proposta; se for cópia dos trechos apresentados nas coletâneas; se for ilegível ou apresentar desconhecimento da norma padrão e manejo da modalidade escrita, acarretando total comprometimento do texto produzido. A redação também será penalizada se não corresponder ao tipo de texto escolhido.

ORIENTAÇÃO GERAL

Esta prova se compõe de uma proposta de redação. Preste atenção ao assunto que é solicitado. A valorização do seu texto dependerá de sua relação direta com o tema, com a montagem do texto, com a coerência, com a coesão e, principalmente, com os argumentos que você utilizar para convencer o seu leitor de que o seu ponto de vista é o melhor.

ALTERNATIVA A

Texto 1

O preconceito implícito, também conhecido como atitude implícita, é uma atitude negativa, da qual não se tem consciência, contra um grupo social específico.Pensa-se que o preconceito implícito é moldado pela experiência e baseado em associações aprendidas entre qualidades específicas e categorias sociais, incluindo raça e/ou gênero. As percepções e os comportamentos dos indivíduos podem ser influenciados pelos preconceitos implícitos que possuem, mesmo que não tenham consciência de que possuem tais preconceitos. O preconceito implícito é um aspecto da cognição social implícita: o fenômeno de que percepções, atitudes e estereótipos podem operar antes da intenção ou endosso consciente. Adaptado do Dicionário APA de Psicologia e Wikipedia

Texto 2

“Além da superhumanização das pessoas negras, já foram catalogados vários tipo de preconceito implícito.Tem-se, por exemplo, a ameaça de estereótipo, que é um fenômeno que ocorre em função da pressão que determinados grupos estigmatizados sentem quando são comparados, em testes ou competições com outras pessoas, o que pode levar a uma piora no desempenho, derivada da ansiedade, que confirma a expectativa de inferioridade. (…) Por exemplo, quando negros ou mulheres fazem testes e são informados de que o objetivo do teste é fazer uma comparação de inteligência com homens brancos, o desempenho geralmente é pior do que quando tal fato não é informado. A ameaça de estereótipo é um dos fatores que põem em cheque as crenças tradicionais sobre a meritocracia(…).Outro exemplo de preconceito implícito deriva do chamado racismo aversivo, que surge a partir do

desconforto mental, ainda que involuntário, que algumas pessoas sentem quando estão na presença de membros de grupos estigmatizados. Isso pode levar, por exemplo, um professor a prejudicar involuntariamente um aluno pelo fato de ele ser membro de uma minoria, tratando-o com mais severidade, desmotivando-o ou ignorando os seus méritos, o que pode prejudicá-lo pelo resto da vida. Ou pode levar uma pessoa negra a ser preterida em uma entrevista de emprego em razão do racismo aversivo do entrevistador, que torna o ambiente mais hostil e tenso, com pouca troca de palavras, distanciamento e encerramento prematuro, prejudicando o desempenho do entrevistado. Ou então pode levar um juiz a diminuir a credibilidade do depoimento de uma testemunha ou até mesmo a ser mais rigoroso ao julgar um réu, influenciado inconscientemente por preconceitos implícitos. Existem muitos estudos que comprovam a existência do racismo aversivo em diversas áreas da vida. " https://direitosfundamentais.net/2016/12/11/palestra-discriminacao-por-preconceito-implicito/

Texto 3 (Imagem)

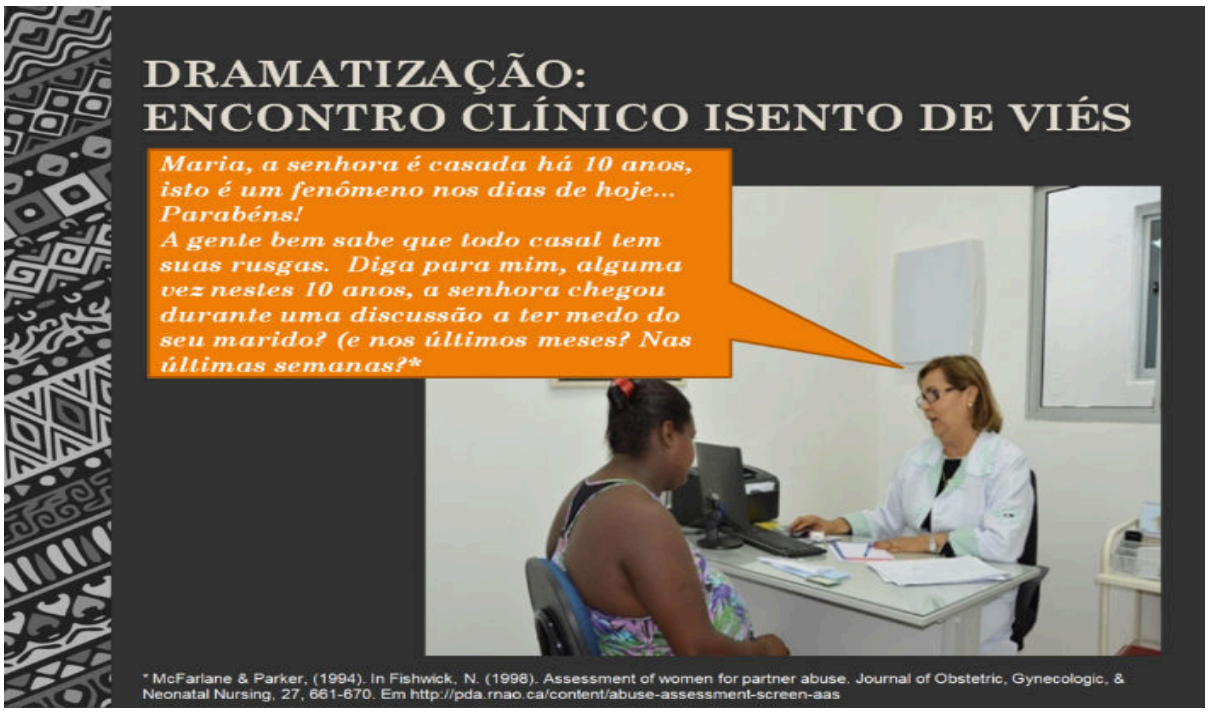

Fonte: https://nepae.uff.br/wp-content/uploads/sites/119/2023/07/dramatizacao-980x745.png

Texto 4 (Imagem)

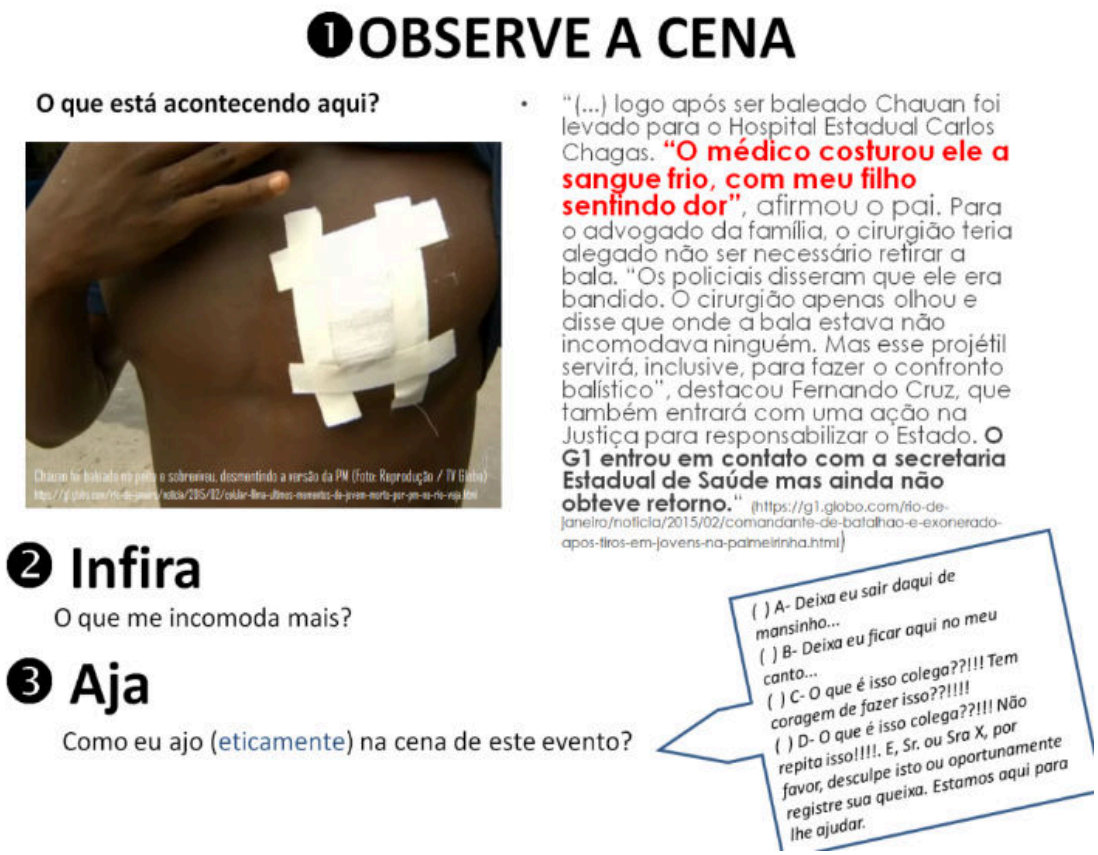

A partir da leitura dos textos motivadores e com base nos conhecimentos construídos ao longo de sua formação, redija texto dissertativo-argumentativo sobre o tema: **O efeito (ou custo) do viés implícito para a saúde da pessoa/população socialmente vulnerável.**

ALTERNATIVA B

Texto 1 (Imagem)

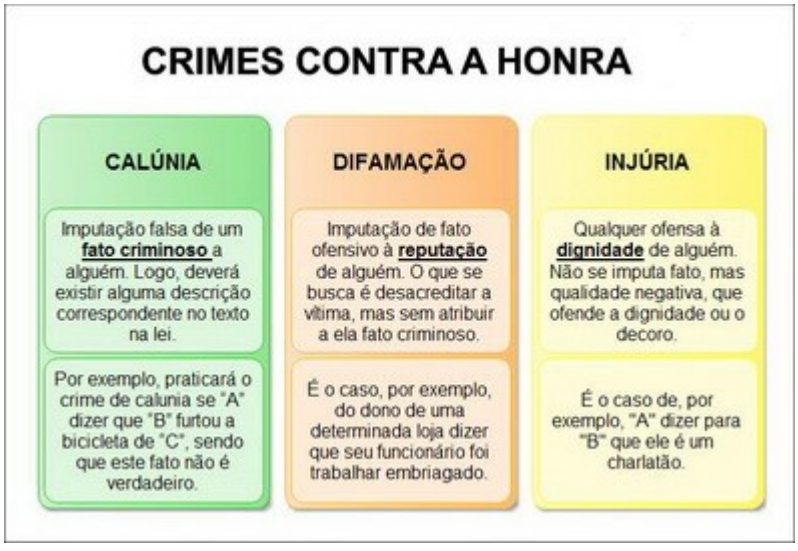

Fonte:
https://www.militarpos64.com.br/sitev2/2016/12/a-quem-interessar-possa-difamacao-calunia-e-injuria-diferencas-entr

e-os-crimes-contra-a-honra/

Texto 2

Os perrengues jurídicos também acontecem entre empresas prestadoras de serviço de famosos. O apresentador e ator João Vicente de Castro processou a empresa fornecedora de água por ter incluído seu nome no SPC, e o ator Guilherme Fontes entrou na justiça contra a empresa fornecedora de luz por preços abusivos. E há ainda os muitos processos entre famosos.Roberto Carlos moveu uma ação contra Tiririca que cantou uma paródia da música "O Portão" em sua campanha política. Roberto pedia R$ 50 mil de indenização, mas no final de outubro, o cantor perdeu a causa.Jojo Toddynho pede R$ 50 mil de Val Marchiori por comentários gordofóbicos da socialite. Gordofobia também foi o motivo que levou o apresentador do SBT Danilo Gentili a ser condenado a pagar R$ 20 mil à deputada federal Sâmia Bomfim. Ambos ainda podem recorrer. Por falar em SBT, no ano passado Inês Brasil também entrou com processo contra Diguinho Coruja por difamação e informações falsas que Diguinho teria dito sobre ela num podcast. O ator José de Abreu terá que pagar R$ 25 mil por danos morais ao também ator Carlos Vereza, por postagens ofensivas em suas redes sociais.Caio Castro também entrou em disputa judicial com o influenciador Cardoso Mundo, que criticou o ator que disse, no ano passado, que não pagava a conta nos encontros com mulheres. O caso se arrastou até junho desse ano, a favor de Caio. O réu foi condenado a se retratar, pagar R$ 12 mil de indenização e mais as custas do processo. A apresentadora Patricia Poeta perdeu um processo que movia contra o jornalista Alessandro Lo-Bianco por "difamação e crimes contra sua honra". Alguns casos podem levar anos até um desfecho, como no caso de Dani Calabresa e Bento Ribeiro, que fizeram comentários homofóbicos sobre o colunista Marcelo Bandeira no ano de 2011, no Furo MTV. Marcelo só entrou com o processo três anos depois, em 2014, pedindo R$ 272.500 por danos morais. Pois só em outubro desse ano o caso foi concluído, 12 anos depois, com Dani e Bento sendo condenados a pagar R$ 15 mil a Marcelo por todo transtorno causado. De tudo isso, fica a lição a ser aprendida. Todos têm direito à livre expressão, garantida pela lei. Mas quem usa essa liberdade para ofender ou caluniar outra pessoa, pela mesma lei, pode acabar pagando bem mais do que a língua. Fonte: https://f5.folha.uol.com.br/colunistas/rosana-hermann/2023/11/tata-roberto-carlos-adnet-caio-castro-famosos-processam-e-sao-processados.shtml

Texto 3

Podemos destacar vários nomes de pessoas de boa reputação, que na sua vida, no dia a dia se destacaram não por que quiseram, mas pelas ações que realizam e realizaram, e que algumas ficam destacados na história e que deixam um legado, dentre essas pessoas de boa reputação, gostaria de destacar: irmã Dulce dos pobres, Nelson Mandela, Teresa de Calcutá, Martin Luther King Jr, dentre tantos outros, que com sua história e defesa fizeram e deixaram vários seguidores, sua marca e que até hoje são lembrados. Temos muitas pessoas de boa reputação que também não são famosas, mas que conhecemos em nosso círculo de amizades, mas que com suas ações demostram ser pessoas no qual podemos contar, confiar, acreditar e que de certa forma nos ajudam, direta ou indiretamente. (...)Quem não gostaria de ser visto pela comunidade, colegas de trabalho, sociedade em geral com uma pessoa de boa reputação? (...) uma pessoa de boa reputação, você deve ser você mesmo e buscar fazer as coisas certas e do jeito certo, se autoconhecer, buscar novos conhecimentos, ser de bom caráter e o resto os resultados virão, pois é como que uma semente no qual você planta e logo em seguida você colhe.

Fonte: https://pt.linkedin.com/pulse/por-que-%C3%A9-importante-ter-uma-boa-reputa%C3%A7%C3%A3o-leonardo-mac%C3%A1rio#:~:text=Leonardo%20Mac%C3%A1rio,-Supervisor%20de%20Sa%C3%BAde&text=Ter%20boa%20reputa%C3%A7%C3%A3o%20%C3%A9%20algo,ambiente%20profissional%2C%20familiar%20e%20social.

“A boa reputação vale mais que grandes riquezas; desfrutar de boa estima vale mais que prata e ouro.” Provérbios 22:1

A partir da leitura dos textos motivadores e com base nos conhecimentos construídos ao longo de sua formação, redija texto dissertativo-argumentativo sobre o tema: **Quanto vale a reputação de alguém?**

FOLHA DE RASCUNHO – PROVA DE REDAÇÃO

Indique a opção escolhida: (Obs: a opção é dentre os termos propostos)	Corretor:	Nota:

	Título:
1	
2	
3	
4	
5	
6	
7	
8	
9	
10	
11	
12	
13	
14	
15	
16	
17	
18	
19	
20	
21	
22	
23	
24	
25	

QUÍMICA
CLASSIFICAÇÃO PERIÓDICA DOS ELEMENTOS
Com massas atômicas referidas ao isótopo 12 do Carbono

1												13	14	15	16	17	18
1 H 1,01	2																2 He 4,00
3 Li 6,94	4 Be 9,01											5 B 10,8	6 C 12,0	7 N 14,0	8 O 16,0	9 F 19,0	10 Ne 20,2
11 Na 23,0	12 Mg 24,3	3	4	5	6	7	8	9	10	11	12	13 Al 27,0	14 Si 28,1	15 P 31,0	16 S 32,1	17 Cl 35,5	18 Ar 39,9
19 K 39,1	20 Ca 40,1	21 Sc 45,0	22 Ti 47,9	23 V 50,9	24 Cr 52,0	25 Mn 54,9	26 Fe 55,8	27 Co 58,9	28 Ni 58,7	29 Cu 63,5	30 Zn 65,4	31 Ga 69,7	32 Ge 72,6	33 As 74,9	34 Se 79,0	35 Br 79,9	36 Kr 83,8
37 Rb 85,5	38 Sr 87,8	39 Y 88,9	40 Zr 91,2	41 Nb 92,9	42 Mo 95,9	43 Tc (99)	44 Ru 101	45 Rh 103	46 Pd 106	47 Ag 108	48 Cd 112	49 In 115	50 Sn 119	51 Sb 122	52 Te 128	53 I 127	54 Xe 131
55 Cs 133	56 Ba 137	57-71 Série dos Lantanídios	72 Hf 178	73 Ta 181	74 W 184	75 Re 186	76 Os 190	77 Ir 192	78 Pt 195	79 Au 197	80 Hg 201	81 Tl 204	82 Pb 207	83 Bi 209	84 Po (210)	85 At (210)	86 Rn (222)
87 Fr (233)	88 Ra (226)	89-103 Série dos Actinídios	104 Rf (261)	105 Db (262)	106 Sg (263)	107 Bh (262)	108 Hs (265)	109 Mt (266)	110 Uun (267)								

Série dos Lantanídios

57 La 139	58 Ce 140	59 Pr 141	60 Nd 144	61 Pm (147)	62 Sm 150	63 Eu 152	64 Gd 157	65 Tb 159	66 Dy 163	67 Ho 165	68 Er 167	69 Tm 169	70 Yb 173	71 Lu 175

Série dos Actinídios

89 Ac (227)	90 Th (232)	91 Pa (231)	92 U (238)	93 Np (237)	94 Pu (242)	95 Am (243)	96 Cm (247)	97 Bk (247)	98 Cf (251)	99 Es (254)	100 Fm (253)	101 Md (256)	102 No (253)	103 Lr (257)

Número Atômico
Símbolo
Massa Atômica
( ) Nº de massa do isótopo mais estável

VESTIBULAR MEDICINA 2024/02

PROCESSO SELETIVO 2º SEMESTRE DE 2024
CAMPUS APARECIDA
04 DE JUNHO DE 2024

GABARITO
DEFINITIVO

Questão	A	B	C	D
1	F	V	F	V
2	V	F	F	V
3	F	V	F	V
4	V	F	F	F
5	V	V	F	F
6	V	F	F	V
7	F	V	V	F
8	V	V	F	F
9	F	F	F	V
10	V	F	V	V
11	F	V	V	V
12	F	V	F	V
13	V	V	F	F
14	F	V	F	F
15	F	F	F	V
16	F	F	V	V
17	V	F	V	F
18	V	F	V	V